Rytmika kl. 2

zestaw ćwiczeń nr 3

1) Postaw kreski taktowe we właściwym miejscu aby każdy takt liczył się na $\frac{4}{4}$

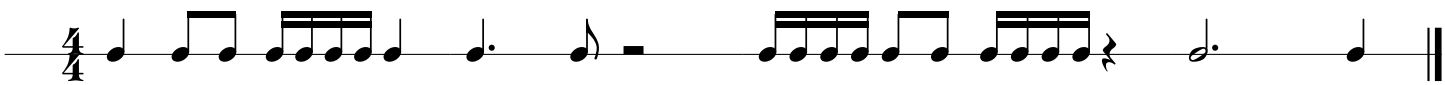

2) Dopisz wartość rytmiczną lub grupę aby każdy takt liczył się na $\frac{2}{4}$

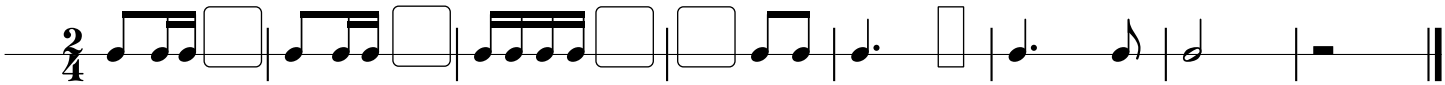

3) Określ metrum $\frac{3}{4}$ $\frac{4}{4}$ $\frac{5}{4}$ $\frac{6}{4}$

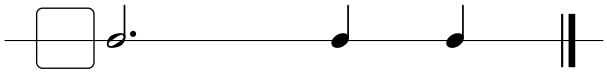
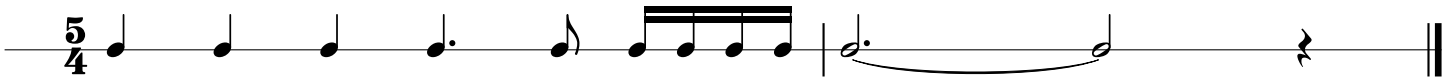
4) Skreśl niepotrzebne nuty aby każdy takt liczył się na $\frac{5}{4}$ ($\frac{3}{4} + \frac{2}{4}$)