# Rytmika kl.1

zestaw ćwiczeń nr 3

1) Postaw kreski taktowe we właściwym miejscu aby każdy takt liczył się na $\frac{4}{4}$

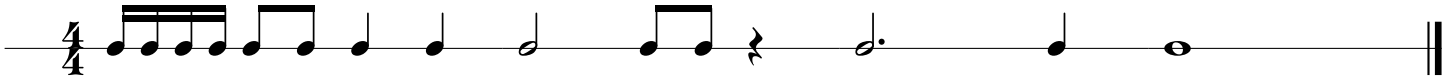

2) Dopisz wartości rytmiczne aby każdy takt liczył się na $\frac{2}{4}$

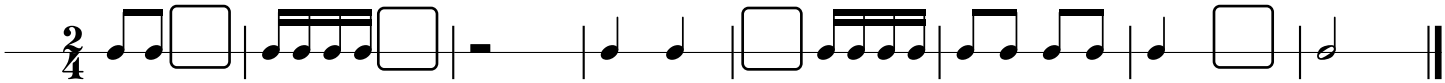

3) Określ metrum $\frac{2}{4}$ $\frac{3}{4}$ $\frac{4}{4}$

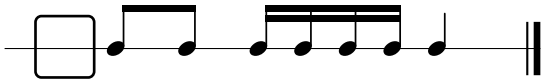

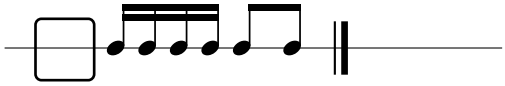
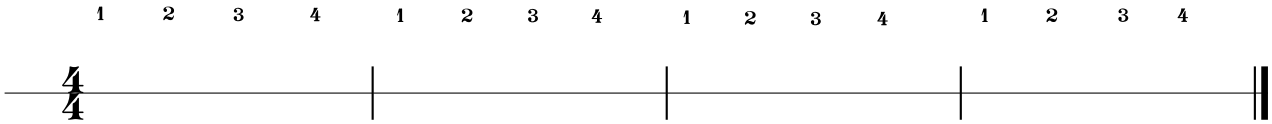
4) Napisz swój temat rytmiczny z pauzą półnutową